الجمهورية الجزائرية الديمقراطية الشعبية

وزارة التربية الوطنية | مديرية التربية لولاية أم البواقي

المستوى: اولى متوسط | متوسطة عكاشة محمد - حي رقايزي - | تعاد يوم : 2017/10/18

الوظيفة المنزلية (01) للثلاثي الأول | في مادة الرياضيات

https://prof27math.weebly.com/

الجزء الأول :

التمرين الأول (04 ن) :

أنقل و أتمم باستعمال أحد الرموز: = ؛ > ؛ <

0,086 .... 0,0806 | 25,24 .... 25,42 | 89 765 .... 89 675

53,13 .... 53,103 | 12,3 .... 12,03 | 103,5 105,3

التمرين الثاني (05 ن) :

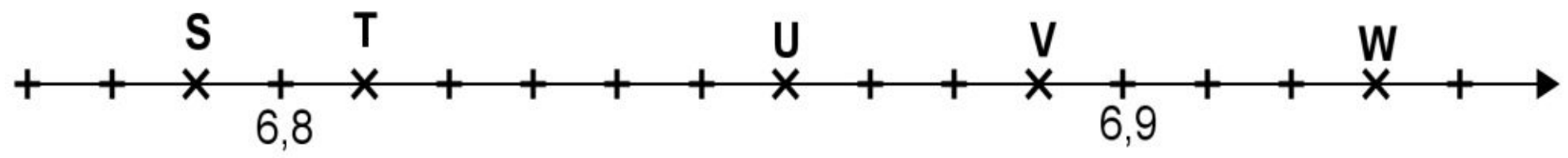

1) ما هي فواصل النقط : S ؛ T ؛ U ؛ V و W.

2) عيّن النقط A ؛ B و C التي فواصلها على الترتيب 6,82 ، 6,84 و $\frac{691}{100}$.

التمرين الثالث (05 ن) :

1) أكتب بالأرقام الأعداد التالية:

أ) خمسمائة وثلاثون و احدى عشر جزء من مئة. ب) أربعة آلاف وثمان مائة وسبعة وعشرون.

2) أكتب بالحروف العـدد : 63,062 6

3) رتب الأعداد التالية تصاعدياً :

17,3 ; 17,257 ; 17,28 ; 17,315 ; 17,351 ; 15,534

4) العدد الذي رقم عشراته وجزء من عشرات هو 8، وعدد المئات وجزء من المئات هو 5، وجميع الأرقام الأخرى هي أصفار.

أ) ما هو هذا العدد؟ ب) أعـط المفكـــوك النمــوذجي لهذا العـــدد.

3) أعـــــط الكتابة العشرية لكل من الأعـداد التالية :

$2,017\times100$; $24+\frac{20,17}{10}$; $\frac{20,17}{1000}$; $\frac{1430}{100}$

الجزء الثاني

التمرين الرابع (05 ن) :

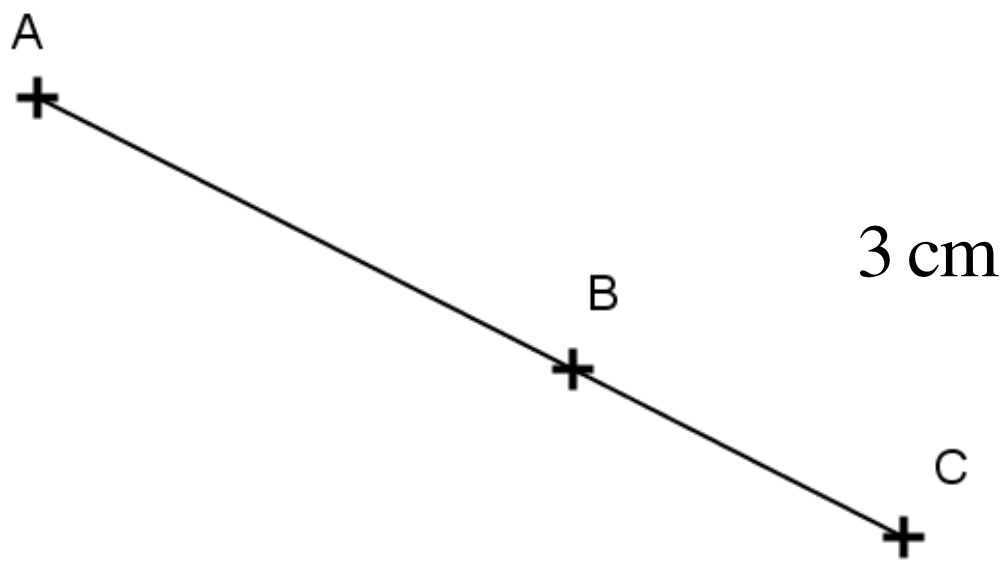

1) أنقل الشكل الموالي حيث : $AB = 3,8\text{ cm}$; $BC = 2\text{ cm}$

2) أرسم المستقيم (d) الذي يشمل النقطة B و يعامد (AC).

عين النقطة F من المستقيم (d) و التي تبعد عن النقطة B بـ : 3 cm

3) أرسم المستقيم (d_1) الذي يشمل النقطة F و يوازي (AC).

4) أكمل مع التعليل مايلي : $(d).....(d_1)$

تقديم الورقة: -اكتب بخط مقروء – تجنب التشطيب– الأشكال الهندسية دقيقة ونظيفة

(1+ منهجية التحرير+نظافة الورقة)

belhocine : https://prof27math.weebly.com/

https://prof27math.weebly.com/

الإجابة المقتـرحة وسلم التنقيط الوظيفة المنزلية (01) للثلاثي الأول

أعطيت يوم الأحد 2017/10/15 ، أستلمت يوم الاربعاء 2017/10/18 صحح يوم الاربعاء 2017/10/25

محاور الموضوع	عناصر الإجابة	العلامة: مجزأة	العلامة: المجموع
	الجــــزء الأول		
التمرين الأول	أنقل و أتمم باستعمال أحد الرموز: = ؛ < ؛ > $0,086 > 0,0806$ | $25,24 < 25,42$ | $89\,765 > 89\,675$ $53,13 > 53,103$ | $12,3 > 12,03$ | $103,5 < 105,3$	2 2	4
التمرين الثاني	1) فواصل النقط هي: S(6,79) ؛ T(6,81) ؛ U(6,86) ؛ V(6,89) و W(6,93). 2) تعيين النقط A ؛ B و C التي فواصلها على الترتيب 6,82 ؛ 6,84 و $\frac{691}{100}$. 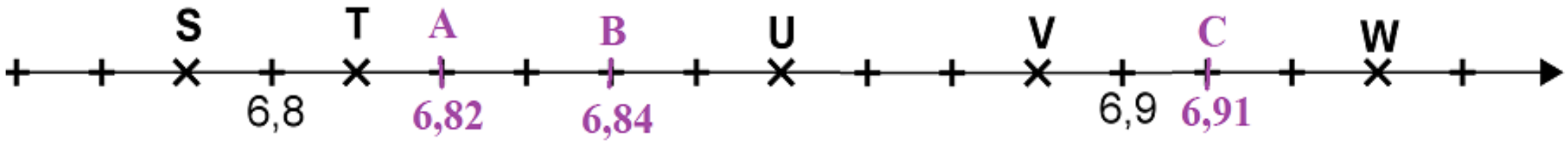	3,5 1,5	5
التمرين الثالث	1) الكتابة بالأرقام الأعداد التالية: أ) خمسمائة وثلاثون و احدى عشر جزء من مئة : **530,11** ب) أربعة آلاف وثمان مائة وسبعة وعشرون : **4827** 2) الكتابة بالحروف العـدد : 6 63,062 : **ثلاثة وستون وحدة وإثنان وستون جزء من ألف وستة أجزاء من عشرة الآلاف** 3) ترتيب الأعداد التالية تصاعدياً : $15,534 < 17,257 < 17,28 < 17,3 < 17,351 < 17,534$ 4) العدد الذي رقم عشراته وجزء من عشرات هو 8، وعدد المئات وجزء من المئات هو 5، وجميع الأرقام الأخرى هي أصفار. أ) هذا العدد هو : **580,85** ب) المفكـــوك النمـــوذجي لهذا العـــدد هو : $580,08 = 8 \times 10 + 5 \times 100 + \frac{8}{100}$ 5) أعــــط الكتابة العشرية لكل من الأعـداد التالية : $\frac{20,17}{1000} = \mathbf{0,02\,017}$; $\frac{1430}{100} = \mathbf{14,3}$ $2,017 \times 100 = \mathbf{201,7}$; $24 + \frac{20,17}{10} = \mathbf{24 + 2,017 = 26,017}$	0,5 0,5 0,5 0,5 0,5 0,5 0,5×2 0,5×2	5

belhocine : https://prof27math.weebly.com/

https://prof27math.weebly.com/

الجـــزء الثـــاني

التمرين الرابع	إنشاء الشكل : 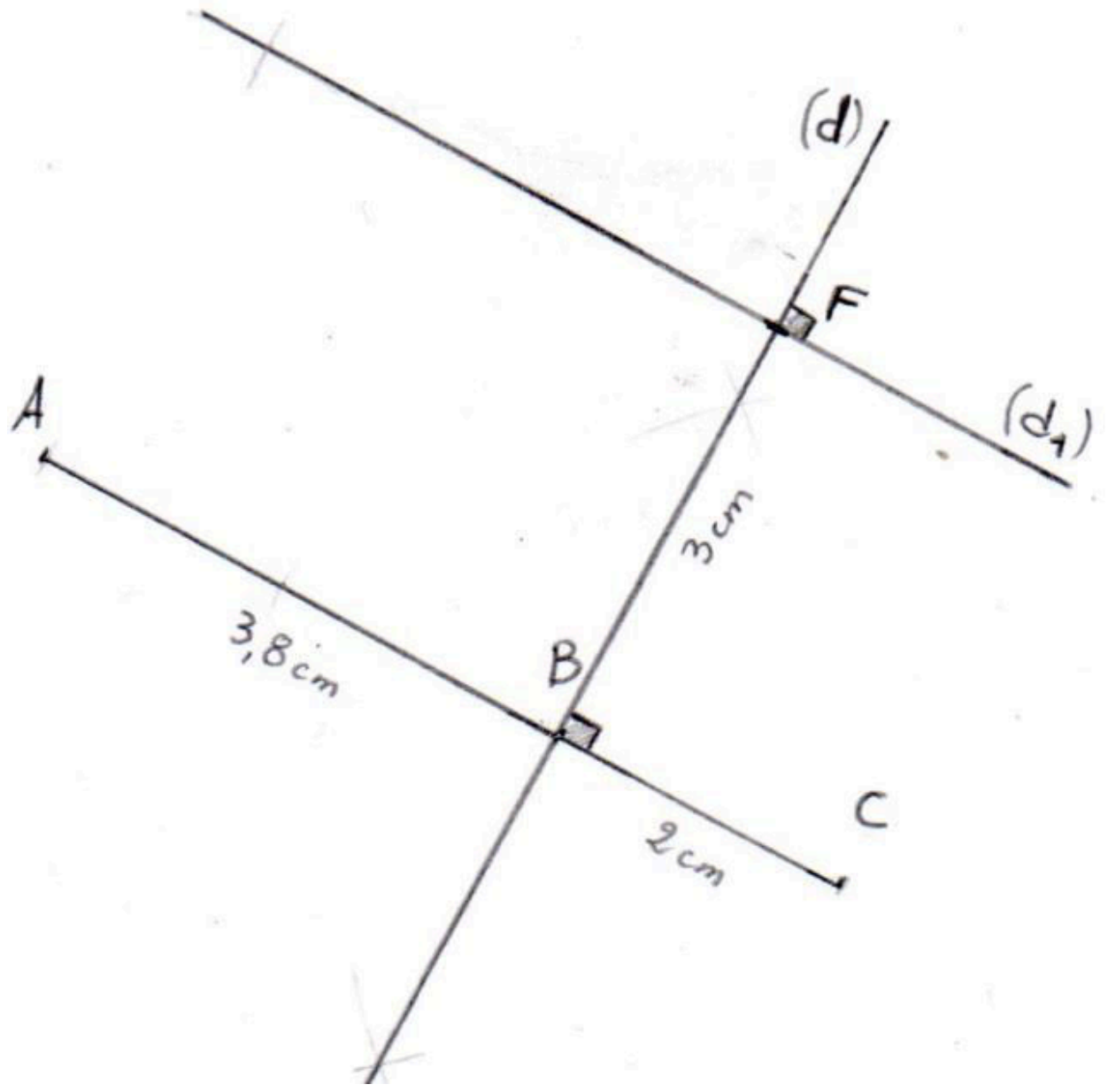	2,5	5
	3) التكملة : $(d) \perp (d_1)$	1	
	التعليل: إذا عامد مستقيم (d) أحد المستقيمين المتوازيين $\begin{cases}(d) \parallel (AC)\\(d_1) \parallel (AC)\end{cases}$	1	
	فإنه عمودي على الآخر $(d) \perp (d_1)$.	0,5	

(+1 منهجية التحرير+نظافة الورقة)

belhocine : https://prof27math.weebly.com/